Les polyèdres (3) CM2

Patrons de polyèdres

Ⓐ Parmi ces figures, quelles sont celles qui sont des patrons de polyèdres ?
Si tu penses que certaines de ces figures n'en sont pas, explique pourquoi.
Pour cela, tu peux numéroter les carrés et rectangles qui composent une figure.



A

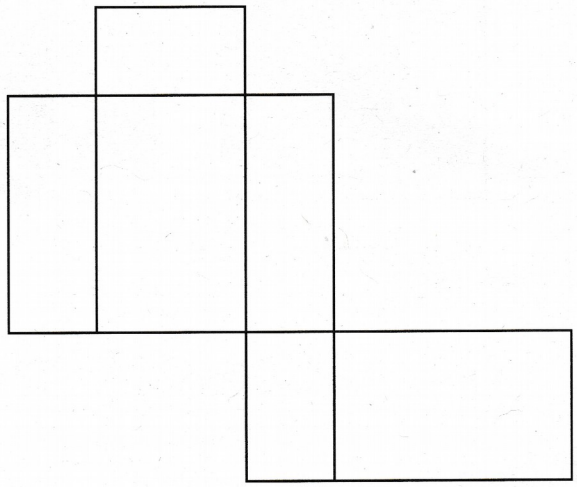

B



C



D

Réponse : ……

……

B Parmi ces figures, quelles sont celles qui sont des patrons de polyèdres ?
Pour t'aider, tu peux colorier de la même couleur ou coder d'une même façon deux côtés qui forment une même arête.
Si tu penses que certaines de ces figures ne sont pas des patrons de polyèdres, explique pourquoi. Pour cela, tu peux numéroter les polygones qui composent une figure.

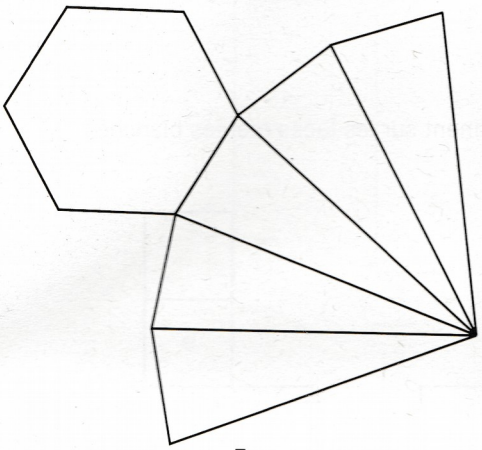

E

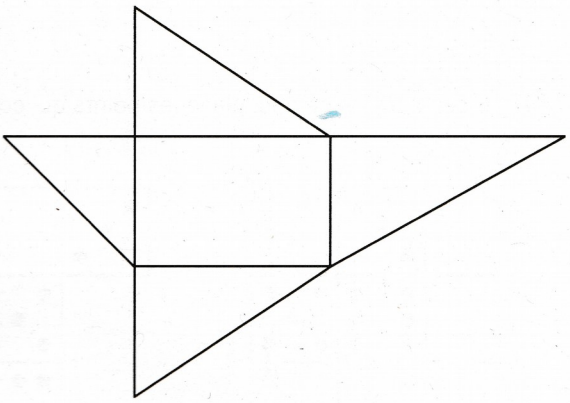

F

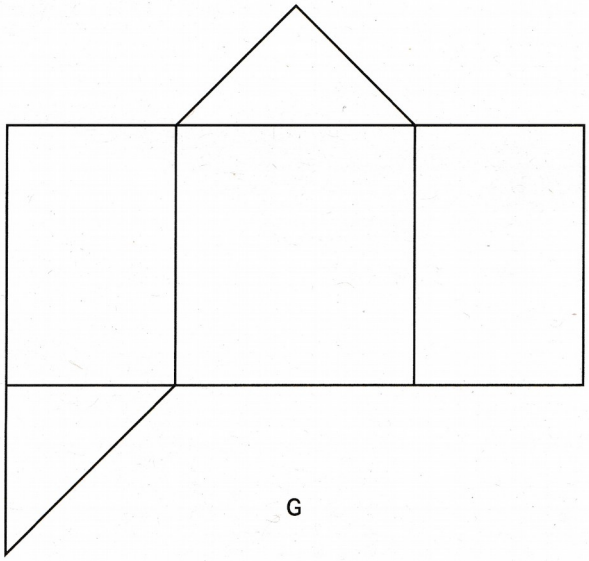

G

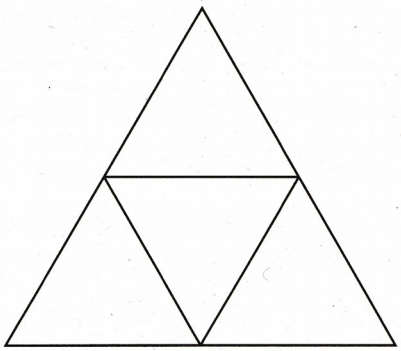

H

Réponse : .....

.....

.....

.....