64A

Prénom .....

Date .....

Maths au CP

Grandeurs et mesures

Écris l'heure indiquée sur chaque horloge.
C'est le matin.

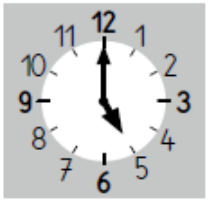

Il est 5 heures.

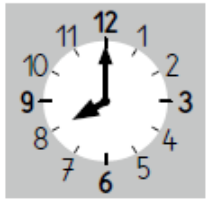

Il est 8 heures.

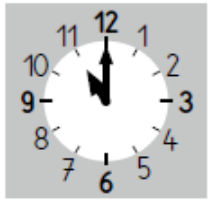

Il est 11 heures.

Il est 7 heures.

Il est 12 heures.

Il est 3 heures.

Dessine la petite aiguille.

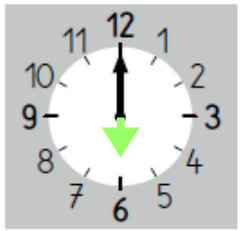

Il est 6 heures.

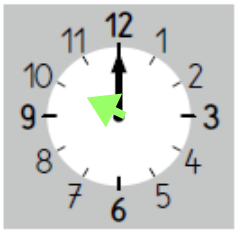

Il est 10 heures.

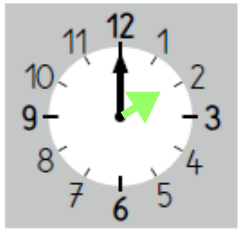

Il est 2 heures.

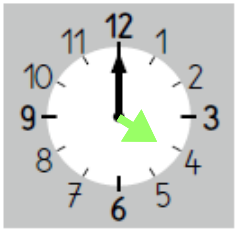

Il est 4 heures.

64B

Prénom .....

Date .....

Maths au CP

Grandeurs et mesures

Écris l'heure indiquée sur chaque horloge.
C'est l'après-midi.



Il est 2 heures.



Il est 4 heures.



Il est 1 heures.

Dessine la petite aiguille.

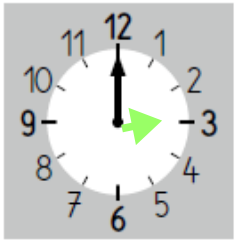

Il est 15 heures.

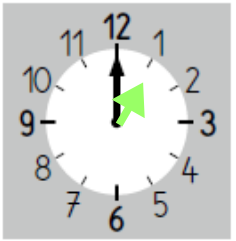

Il est 13 heures.

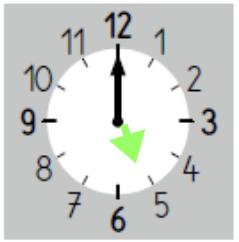

Il est 17 heures.

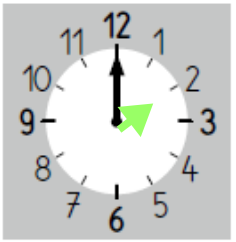

Il est 14 heures.

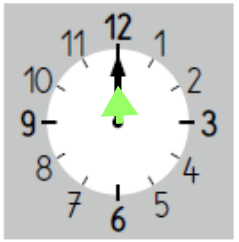

Il est midi.

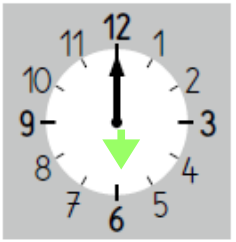

Il est 18 heures.

60 Mesurer une longueur à l'aide d'une unité étalon

✔ Je mesure la longueur d'un segment en reportant l'unité.

Unité

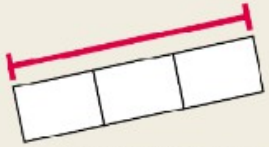

La longueur du segment rouge est 3 unités.

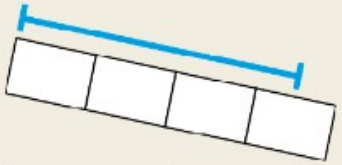

La longueur du segment bleu est entre 3 et 4 unités.

1 Utilise l'unité jaune pour mesurer chaque segment.

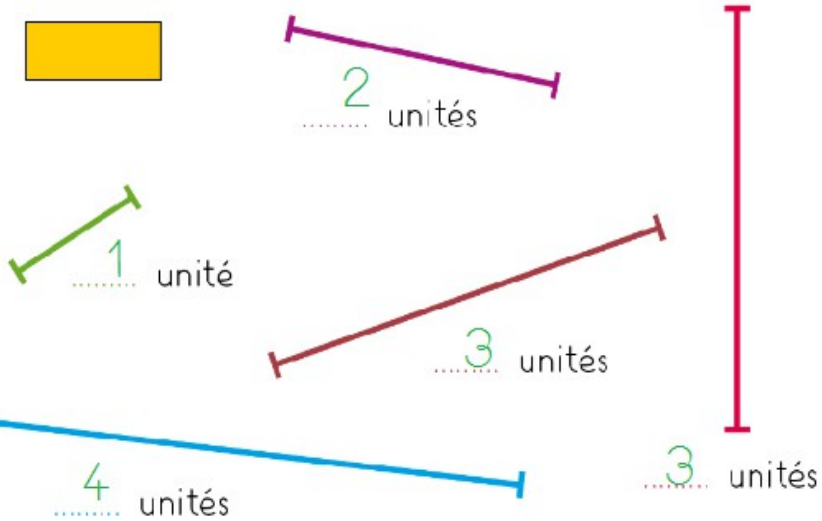

Lola avait écrit tous les nombres de 64 à 75. Retrouve les nombres qui ont disparu.

64 🐾 72 71 🐾 68 🐾 75 67 🐾 73 🐾

65 66 69 70 74

2 Mesure les deux chemins à l'aide de l'unité jaune.
Entoure la fourmi qui va parcourir le chemin le plus long.

3 Sur chaque ligne, trace le segment demandé en utilisant l'unité jaune.

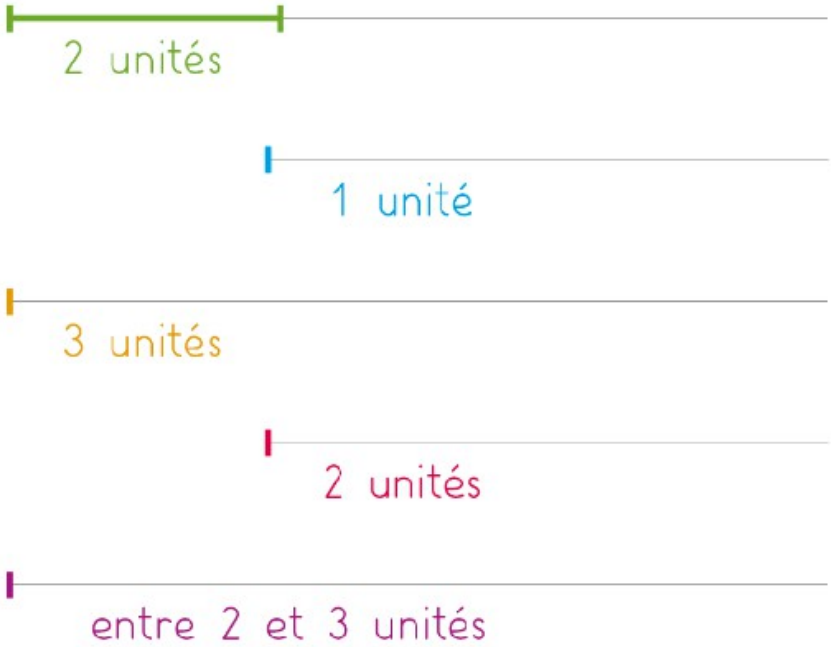

Complète avec deux fois le même nombre si c'est possible.

..... + ... = 13	8 + 8 = 16	9 + 9 = 18
6 + 6 = 12	..... + ... = 19	7 + 7 = 14

64 Lire l'heure

✔ Je sais lire les heures entières.

Il est 4 heures.

Il est midi.

Il est 10 heures.

1 Écris l'heure indiquée sur chaque horloge.

Il est 2 heures

Il est 6 heures

Il est 9 heures

il est 5 heures

il est midi

il est 1 heure

2 Dessine la petite aiguille.

Il est 7 heures.

Il est 1 heure.

Il est 6 heures.

Il est midi.

Calcule.

			3 4	1 2
2 6	4 2	6 5	5 3	4 6
+ 1 3	+ 1 7	+ 2 3	+ 2 1	+ 3 0
. .	. .	. .	. .	. .

3 Dessine l'aiguille qui manque.

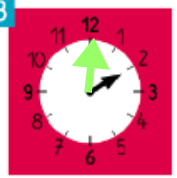
Il est 2 heures.

Il est 10 heures.

Il est 6 heures.

Il est 3 heures.

4 Entoure les horloges qui correspondent au dessin.

Il est 8 heures du matin.
C'est l'heure de se lever.

Il est 10 heures.
C'est l'heure de la récréation.

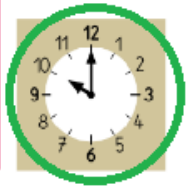

5 Dessine les aiguilles.


11:00

5:00

9:00

12:00

Écris en chiffres.

trois 3	quarante 40	seize 16
trente 30	quatre 4	six 6
treize 13	quatorze 14	soixante 60