Les solides (3) CM1

1/ Associe les faces pour former un patron. Vérifie en formant le solide correspondant (décalque et découpe). Puis donne son nom.



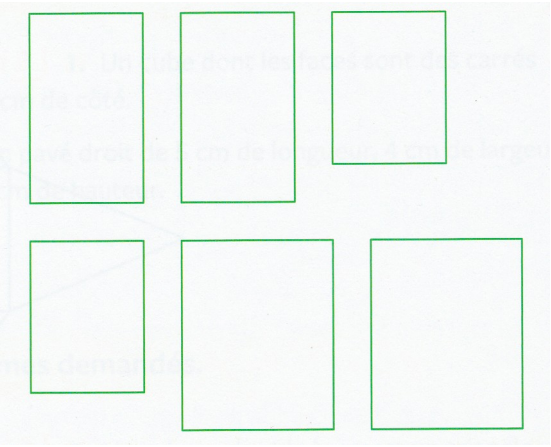

2/ Voici des patrons. Écris quel solide (A, B, C ou D) peut être formé à partir de chaque patron.

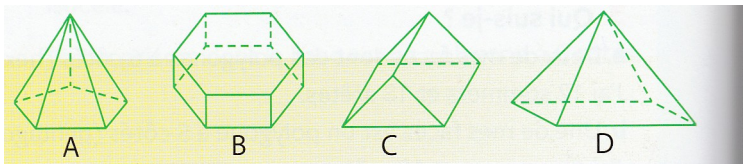

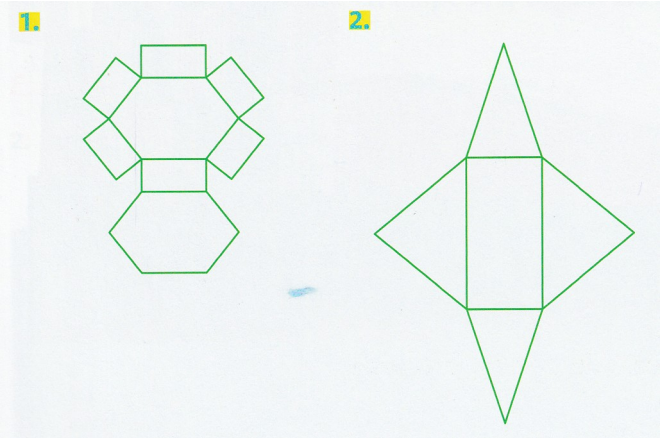

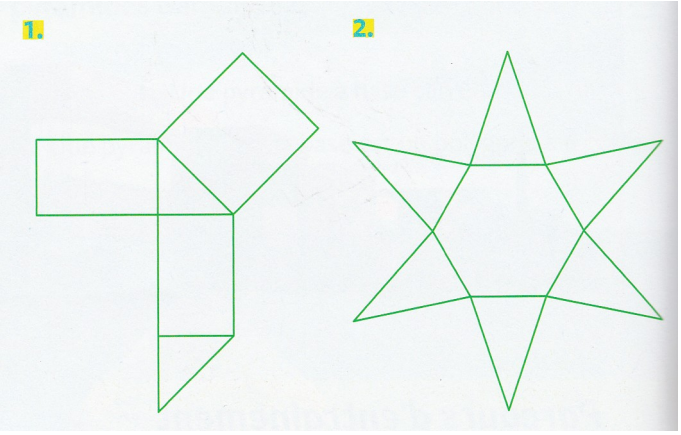

3/ Construis un patron du solide demandé.

a) Un cube dont les arêtes mesurent 4 cm
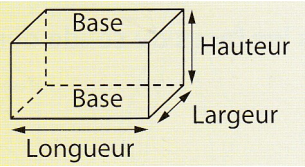
b) Un pavé droit de longueur 4 cm, de largeur 3 cm et de hauteur 5 cm.