CORRECTION MATHS CM1 lundi 8 juin

Exercice n°1

Essai 1

1. Un gâteau est coupé en deux parts égales.
Colorie la moitié du gâteau $\left(\frac{1}{2}\right)$.

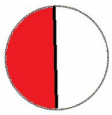

2. Une bande de papier est pliée en deux puis à nouveau en deux.
Colorie le quart de cette bande $\left(\frac{1}{4}\right)$.

3. Colorie à présent les trois quarts de la bande $\left(\frac{3}{4}\right)$.

4. Voici une unité.

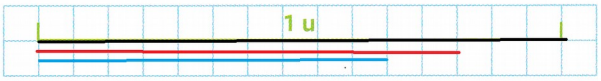

a. Surligne $\frac{2}{3}$ de l'unité. b. Surligne $\frac{4}{5}$.

Essai 2

1. Un gâteau est coupé en trois parts égales.
Colorie un tiers du gâteau $\left(\frac{1}{3}\right)$.

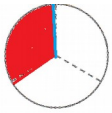

2. Une bande de papier est pliée en deux puis à nouveau en deux.
Colorie deux quarts de cette bande $\left(\frac{2}{4}\right)$.



3. Colorie à présent les quatre quarts de la bande $\left(\frac{4}{4}\right)$.

4. Voici une unité.

a. Surligne $\frac{1}{4}$ de l'unité. b. Surligne $\frac{6}{8}$.

Exercice n°2

Essai 1.	Essai 2
1 / $\frac{1}{2}$	1/ $\frac{2}{2}$
2 / $\frac{1}{3}$	2/ $\frac{2}{3}$
3 / $\frac{3}{4}$	3/ $\frac{1}{4}$
4 / $\frac{2}{5}$	4/ $\frac{5}{5}$
5 / $\frac{3}{7}$	5/ $\frac{5}{7}$
6/ $\frac{3}{9}$	6/ $\frac{6}{9}$

Exercice n°3

Essai 1 → texte a
On a mangé 2 parts de pizza sur 3.

Essai 2 → texte a
Le menuisier a utilisé 5 morceaux sur 8.

Calcul rapide : combien pour aller à 1000 ?

a) de 650 à 1000 ? 350
b) de 810 à 1000 ? 190
c) de 260 à 1000 ? 740
d) de 920 à 1000 ? 80
e) de 150 à 1000 ? 850
f) de 425 à 1000 ? 575
g) de 530 à 1000 ? 470
h) de 740 à 1000 ? 260
i) de 580 à 1000 ? 420
j) de 275 à 1000 ? 725