Correction - Aire du triangle rectangle en centimètre carrés CM2

1/ Calcule l'aire en cm² de chacune des surfaces E et F.

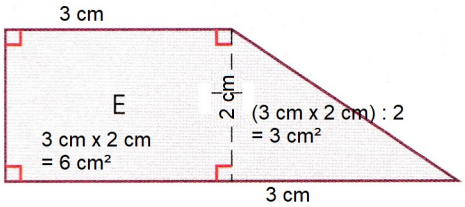

6 cm² + 3 cm² = 9 cm²

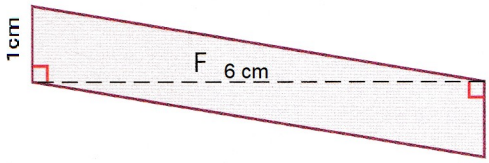

6 cm x 1 cm = 6 cm²

(Tu peux reformer un rectangle avec les triangles)

2/ Calcule l'aire en cm² de chacune des surfaces G et H.
(Où dois-tu les « découper » pour obtenir des triangles rectangles ?)

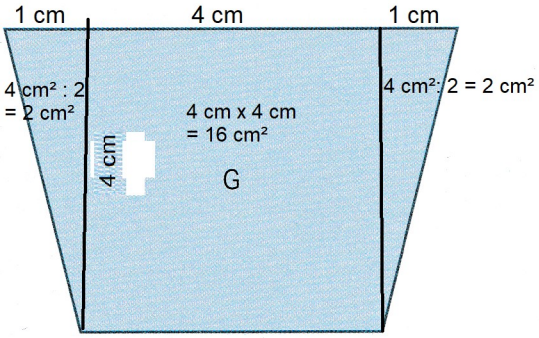

16 cm² + 2 cm² + 2 cm² = 20 cm²

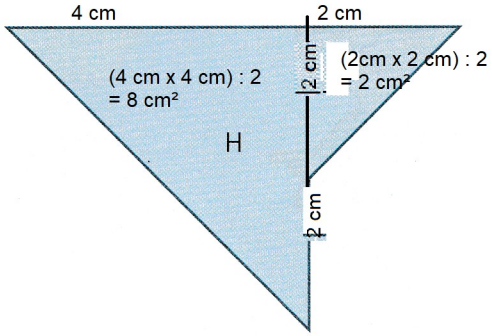

8 cm² + 2 cm² = 10 cm²